أولا - اختر الاجابة

1	C	$2\pi\sqrt{\frac{l}{g}}$
2	D	$3,98\ (s)$
3	C	$\nu = 4\nu$
4	B	مضعفت
5	A	$\frac{1}{2}\nu$

50

ثانيا : اجب عما يلي 3 × 25

1) $\sum \tau_{/\Delta} = I_\Delta \alpha$

2) $\tau_{\vec{w}/\Delta} + \tau_{\vec{T}/\Delta} + \tau_{\vec{P}/\Delta} = I_\Delta \alpha$

$0 + 0 - K\theta = I_\Delta \alpha$

تتذبذب على محور الدوران

$\alpha = \frac{-K}{I_\Delta}\theta$

$\alpha = \ddot{\theta}$

معادلة تفاضلية من المرتبة الثانية تقبل حلا جيبيا

$\theta = \theta_{max}\cos(\omega_0 t + \varphi)$

$\dot{\theta} = -\omega_0 \theta_{max}\sin(\omega t + \varphi)$

$\ddot{\theta} = -\omega_0^2 \theta$

$\omega_0^2 = \frac{K}{I_\Delta}$

$\omega_0 = \sqrt{\frac{K}{I_\Delta}} > 0$

حركة نواس الفتل جيبية دورانية

$\omega_0 = \frac{2\pi}{T_0}$

$T_0 = 2\pi\sqrt{\frac{I_\Delta}{K}}$

لدور النواس تأثير الفتل عزم خطي لا يهم

12

$\frac{T_{02}}{T_{01}} = \sqrt{\frac{K_2}{K_1}}$

$K = K'\frac{(2r)^3}{l}$

$\frac{K_1}{K_2} = \frac{l_2}{l_1}$

$\frac{T_{02}}{T_{01}} = \sqrt{\frac{l_2}{l_1}}$

يتناسب الدور طرديا مع الجذر التربيعي لطول سلك الفتل

25

ب) (A) ② تعرف الكتلة والقطر

حركة الجسيمات في مسرع الجزيئات

(B)

يكون فيها حركة جسيمات ذات شحنة

حركة الجسيم تقطع القطع نفسها في

قطع الاسطوانة

يكون متطابق : اذا كان السرعة ثابتة

جميع نقط السائل

يكون غير متطابق : اذا تغيرت السرعة

من نقطة الى أخرى

مميزاتهما :

غير قابل للانضغاط : كتلة ثابتة

عديم اللزوجة : لا يوجد ضياع طاقة

جريان مستقر : التغير لا يغير

في جريانه : لو تحرك جسيم

الى أين ؟ كل جسيم حول نقطة منه

25

③ $\vec{F} = q\vec{v} \wedge \vec{B}$

نقطة التأثير : النقطة المتحركة فيها

الحامل : عمودي على المستوى المحدد بـ $\vec{B}$ و $\vec{v}$

الجهة : قاعدة اليد اليمنى (كف القاعدة)

الشدة $F = qvB\sin\theta$

$\vec{B} \perp \vec{v}$

F.L

$\vec{F}$ لورنز

لم تتقدم

④ اجب كما هو السؤال

① • تقطع مادي تهتز بدون تأثير على المتابعة الزمنية المحددة بالجذاب
• كل جزء كتلته m يبعد عن المحور
يحيث مطلقا بجذب مثل دكتة الجذب
طول l يحيث بالنسبة لنصف خط الكتلة

$T_o = 2\pi\sqrt{\frac{I_\Delta}{mgd}}$ 3

$d = l$ 2

$I_\Delta = ml^2$ 2

$T_o = 2\pi\sqrt{\frac{ml^2}{mgl}}$

$= 2\pi\sqrt{\frac{l}{g}}$ 4

ومع البندول:

$T = T_o\left(1 + \frac{\theta^2_{max}}{16}\right)$ 3

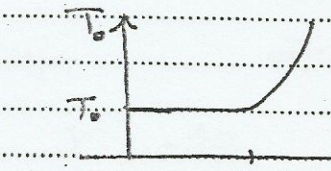

3

25

السعة صغيرة

② 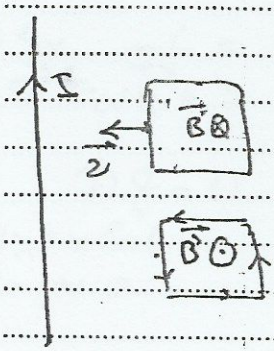

(a 5

ط 10

(c يتعدم B' أو يتعدم $\vec{B}$ ويصبح $\vec{B}$ ثابت (وهي) 10

25

ثانياً حل المسائل التالية

أ) d الوسط: T_o درجة

① $T_o = 2\pi\sqrt{\frac{I_{\Delta/O}}{mgd}}$ 3

$d = \frac{l}{2}$ 2

$I_{\Delta/O} = I_{\Delta/G} + md^2$ 5

$= \frac{1}{12}ml^2 + m\frac{l^2}{4}$

$= \frac{1}{3}ml^2$

$T_o = 2\pi\sqrt{\frac{\frac{1}{3}ml^2}{mg\frac{l}{2}}}$

$= 2\pi\sqrt{\frac{\frac{2}{3}l}{\pi^2}}$ 5

$= 2\sqrt{\frac{2}{3}l}$ 3

$= 2\sqrt{\frac{2}{3}\frac{3}{2}}$

$= 2(s)$ 2

② T_o لبندول مركب $=$ T_o لبندول بسيط 2

$T_o = 2\pi\sqrt{\frac{l}{g}}$

$2 = 2\pi\sqrt{\frac{l}{\pi^2}}$ 2

$l = 1\ (m)$ 1

③ 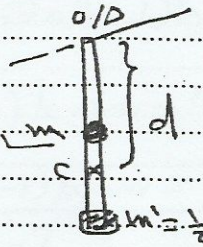

$d = \frac{m_1r_1 + m_2r_2}{m_1 + m_2}$

1 $\omega = \sqrt{8} = 2\sqrt{2}$ rad s^{-1}

2 $v_{m1} = \omega r$
$= 2\sqrt{2}\,\frac{3}{2}$
$= 3\sqrt{2}$ m s^{-1}

3 متى لا يتأثر نصفا منتظم بسرعة الثقل المعلق: عندما يمر بوضع التوازن.

2 $a = g$ سقوط حر

70

5 $\theta' = \frac{V}{At}$ (1)

3 $= \frac{1000 \times 10^{-3}}{500}$

$= \frac{1}{500}$ m^3 s^{-1}

2 $= 2 \times 10^{-3}$ m^3 s^{-1}

5 $Q = \rho \theta'$

3 $= 10^3 \times 2 \times 10^{-3}$

2 $= 2$ kg s^{-1}

5 $Q' = S v$ (3)

3 $v = \frac{2 \times 10^{-3}}{5 \times 10^{-4}}$

2 $= 4$ m s^{-1}

5 $E_K = \frac{1}{2} \rho v^2$

1 واحدة الحجم

5 $d = \frac{m \times \frac{l}{2} + \frac{1}{2} m l}{\frac{3}{2} m}$

$= \frac{2}{3} l$

5 $I_{\Delta/O} = \underset{\text{ساق}}{I_{\Delta/O}} + \underset{\text{كتلة}}{I_{\Delta/O}}$
$= \frac{1}{3} m l^2 + \frac{1}{2} m l^2$
$= \frac{5}{6} m l^2$

3 $T_0 = 2\pi \sqrt{\frac{\frac{5}{6} m l^2}{\frac{3}{2} m \cdot \pi^2 \frac{2}{3} l}}$

$= 2\sqrt{\frac{5}{6} l}$

2 $= 2\sqrt{\frac{5}{6} \frac{3}{2}} = \sqrt{5}$ (s)

(4

3 $\Delta E_K = \sum W_{F(1 \to 2)}$

3 $E_{K_2} - E_{K_1} = W_W + W_R$
$(\theta_2 = 0)$ $\theta_1 = \theta_{max}$

3 $\frac{1}{2} I_\Delta \omega^2 - 0 = mgh + 0$

1 لا تتأثر نصفا بتأثير $\vec{R}$

3 $h = d(1 - \cos\theta_{max})$

3 $\frac{1}{2} I_\Delta \omega^2 = m_3 g d (1 - \cos\theta_m)$

3 $\omega = \sqrt{\frac{2 m_3 g d (1 - \cos\theta_{max})}{I_{\Delta/O}}}$

$= \sqrt{\frac{2(\frac{3}{2}m)\pi^2 \frac{2}{3} l (1 - \frac{1}{2})}{\frac{5}{6} m l^2}}$

14

$F_K = \frac{1}{2} \times 1000 \times 16$

$= 8000\ J\,m^{-3}$

(3)

$Q' = S\,\omega \cdot \frac{1}{4}$

$Q' = \frac{1}{2} S \omega'$

$\omega' = 2\omega$

(5)

(ب) (3) (ج 5a)

(1) $B = 4\pi \times 10^{-7} \frac{N}{\ell} I$

$= 4\pi \times 10^{-7} (1000) \frac{10^{-1}}{2\pi}$

$= 2 \times 10^{-5}\ T$

(2) $\vec{B}_H$ الزاوية من صفحة على $\vec{B}$ بعد اجراء الضابط:

$\tan\alpha = \frac{B}{B_H}$

$= \frac{2 \times 10^{-5}}{2 \times 10^{-5}}$

$= 1$

$\alpha = \frac{\pi}{4}\ rd$

(1) زاوية انحراف الابرة عن $\vec{B}_H$ (عند ضبط الزوال المغناطيسي)

(3) عند قطع التيار:

$B_2 = 0$ ، $\Phi_2 = 0$

لفة $N = 100 \times 10^{-1} = 100$ وسعة

$\Phi_1 = N\,B\,S\,\cos\alpha$

$= 100 \times 2 \times 10^{-5} \times 10 \times 10^{-4} \times 1$

$\Phi_1 = 2 \times 10^{-6}$ ويبر

$\Delta\Phi = 0 - 2 \times 10^{-6}$

$= -2 \times 10^{-6}$ ويبر

$\Delta\Phi = 0$: B_H عند

$\Delta\Phi = -2 \times 10^{-6}$ ويبر

(العكس)

(باي 1)

(4) الجواب د

(1) $\bar{\varepsilon} = \frac{-\Delta\Phi}{\Delta t}$

$= \frac{-N(\Delta B) S \cos\alpha}{\Delta t}$

$= \frac{-100(0 - 0.08) \pi \times 16 \times 10^{-4} \times 1}{2}$

$= 2 \times 10^{-2}\ V$

$\bar{i} = \frac{\bar{\varepsilon}}{R} = \frac{-2 \times 10^{-2}}{20}$

$= -10^{-3}\ A$

$\Delta q = i\,\Delta t$

$= 10^{-3} \times 2$

$= 2 \times 10^{-3}\ C$



1) $P = \varepsilon . i$
$= -2\times10^{-5}(-10^{1})$
$= 2\times10^{-5}$ واط — 4

$P' = R i^{2}$
$= 20(10^{-6})$
$= 2\times10^{-5}$ واط — 4

2) من تعريف الوسطاء الكهربائية
التي تحتوي بشكل جوهري في المقاومة
B)
1)

5) $\Gamma_{o} = N B . S \sin\alpha$

3) $= 100 \times 0,2 \times \pi \times 16\times10^{-4} \times 10^{-1}$

$= 32\pi \times 10^{-4}$

2) $= 10^{-2}$ m.N

2) شرط القترة الوتائية:

2) $\Gamma_{o} = 0$

3) $\Gamma_{o} + \Gamma_{o} = 0$

عزم القوة المرونية | عزم القوة الكهرطيسية

3) $N B S I \sin\alpha + (-K\theta') = 0$

3) $K = \frac{N B S I \sin\alpha}{\theta'}$

$\theta' = 60^{\circ} \Rightarrow \alpha = 30^{\circ}$

3) $K = \frac{100 \times 0,2 \times \pi \times 16\times10^{-4} \cdot 10^{-1} \times \frac{1}{2}}{\frac{\pi}{3}}$

١٦

١ | 70

$K = 48\times10^{-4}$ m.N.rd^{-1}